気団と前線

NO. １　　名前　　点

1　右の図は性質の異なる２つの空気のかたまりA,Bが接している様子を表したものである。

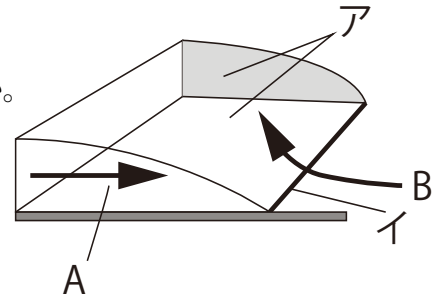

①　あたたかい空気、冷たい空気のどちらが密度が大きいか。

②　あたたかい空気をしめしているのは,A,Bのどちらか。

③　AやBのような大きな空気のかたまりを何というか。

④　右図のアのように、あたたかい空気と冷たい空気が接する境の面を何というか。

⑤　右図のイ　のような２つの空気のかたまりの境界面と地面の境にできる線を何というか。

2　下の図は、前線の作りを表したものである。次の問いに答えなさい。

A

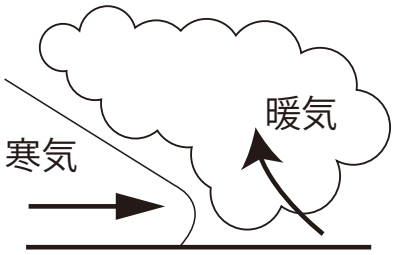

B



①　A,Bはそれぞれ何という前線か。

②　A,Bの前線を表す記号を、それぞれ下の図から選び記号で答えなさい。

ア

イ

ウ

解答

1

①　冷たい空気

②　B

③　気団

④　前線面

⑤　前線

2

①　A　寒冷前線　　B　温暖前線

②　A　ウ　　B　ア