座標の基本

名前	

／11　点

1．（　　）に適当なことばを入れなさい。

右図のように、点O　で垂直に交わる２つの数直線で、横の数直線を ①　（　　），縦の数直線を ②　（　　），①、②をあわせて ③　（　　）といい、交点Oを ④　（　　）という。

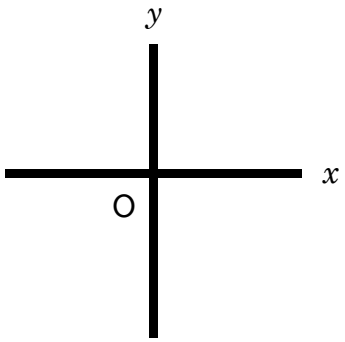

2.　右の図の点 A, B, C の座標を答えなさい。

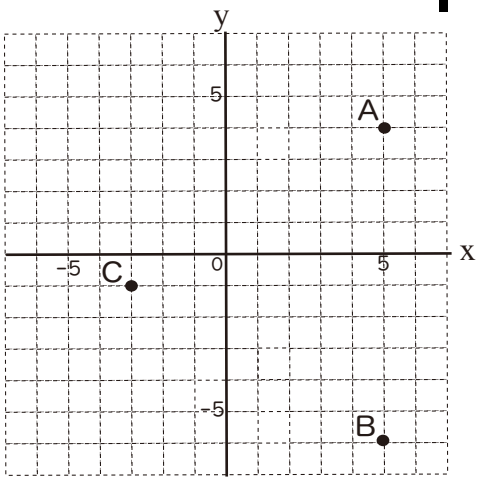

3.　座標が次のような点を，下の図にかき入れなさい。

A（ 5 ， 1 ）

B（ -2 ， 4 ）

C（ -6 ， -2 ）

D（ 3 ， -3 ）

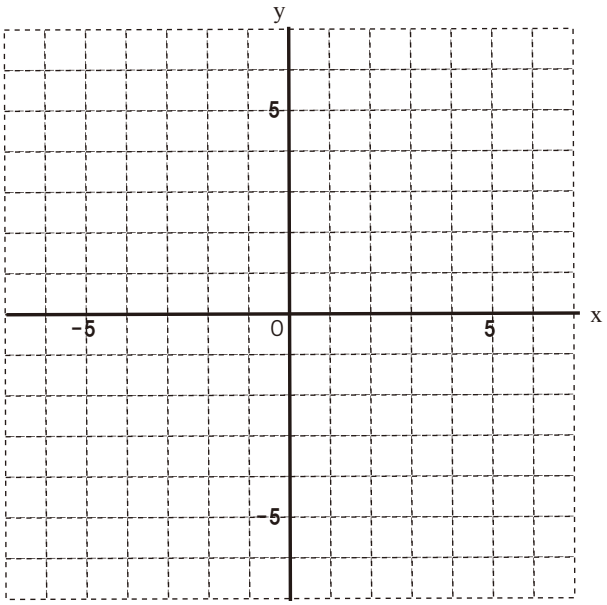

解答

1.　①　x 軸　②　y 軸　③　座標軸　④　原点

2.　A（ 5 ， 4 ）

B（ 5 ，-6 ）

C（ -3 ，-1 ）
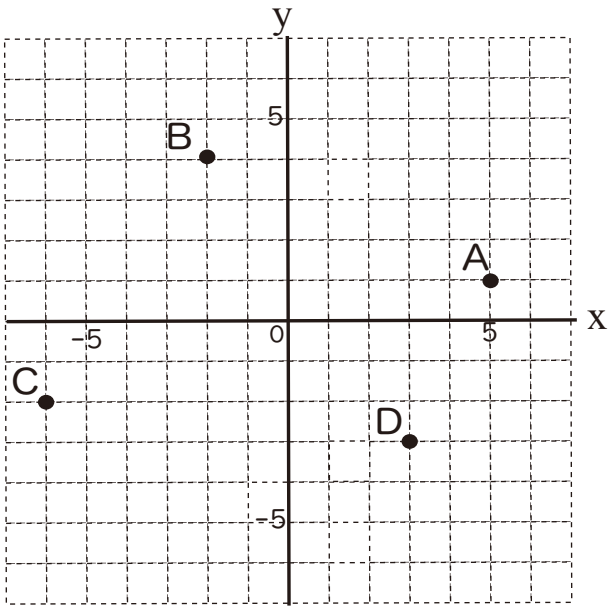
3.